PREFEITURA MUNICIPAL DE BELÉM
SECRETARIA MUNICIPAL DE EDUCAÇÃO
NÚCLEO DE INFORMÁTICA EDUCATIVA
ALFAMAT – ALFABETIZAÇÃO MATEMÁTICA, LEITURA E ESCRITA

3º TESTE DE LÍNGUA PORTUGUESA E MATEMÁTICA

CICLO II

1º ANO

SETEMBRO / 2011

BLOCO 1

LÍNGUA PORTUGUESA

Você terá 25 minutos para responder a este bloco

Leia a tirinha e responda às questões **01**, **02**, **03** e **04**.



Copyright © 1999 Mauricio de Sousa produções Ltda. Todos os direitos reservados. 8905

http://www.monica.com.br/comics/tirinhas

QUESTÃO 01
As reticências (**...**) usadas nas falas do Cebolinha indicam que ele

(A) começou a contar.
(B) continua contando.
(C) terminou a contagem.
(D) não quer mais contar.

QUESTÃO 02
A PARTE ENGRAÇADA na tirinha deve-se ao fato da Mônica

(A) chegar pulando corda e dizer que estava fazendo exercício.
(B) não conseguir contar e pedir ajuda para o Cebolinha.
(C) desistir de pular corda porque ficou muito cansada.
(D) estar tão pesada que acabou afundando no chão.

QUESTÃO 03
A linguagem utilizada pelos personagens é

(A) formal.
(B) regional.
(C) informal.
(D) científica.

QUESTÃO 04
A FINALIDADE do texto é

(A) divertir e entreter.
(B) ensinar a fazer algo.
(C) informar sobre um assunto.
(D) divulgar um produto.

Leia os textos e responda às questões **05**, **06** e **07**.

Texto 1

Falta d'água muda cotidiano de 1 milhão na grande Belém

O cotidiano de mais de um milhão de pessoas será diferente, hoje, a partir das 11 horas, por conta da suspensão do abastecimento de água em 28 bairros da Região Metropolitana de Belém (RMB).

Para uma moradora da Cidade Nova, Luana Salgado, a suspensão de água no domingo é um aborrecimento. "Para quem trabalha a semana inteira, será uma situação complicada", disse Luana.

Adaptado de O Liberal, Caderno Atualidades, 21 de agosto de 2011

Texto 2

Por que a água não cai deste mundo tão redondo?

A água não cai porque é atraída em direção ao centro da Terra pela força da gravidade, ou seja, ela é puxada sempre na direção do centro do Planeta. No espaço, com menos gravidade, as gotas de água se espalham em todas as direções.

Adaptado de Revista Recreio, São Paulo, Abril, ano 7, n. 341, 21 set. 2006

QUESTÃO 05
Os dois textos tratam sobre

(A) a água.
(B) o bairro.
(C) o planeta Terra.
(D) a Cosanpa.

QUESTÃO 06
No **texto 1,** Luana Salgado está

(A) contando um fato.
(B) dando uma opinião.
(C) contando uma piada.
(D) fazendo um pedido.

QUESTÃO 07
O **texto 2** foi retirado de

(A) um livro.
(B) um cartaz.
(C) uma revista.
(D) um jornal.

Leia o texto e responda às questões **08**, **09**, **10** e **11**.

O coelho e a tartaruga



O coelho estava se gabando para os outros animais:

— Sou o mais rápido. Desafio a todos aqui a participarem de uma corrida comigo.

— **Aceito o desafio!** Disse a tartaruga.

— **Você é muito lenta! Acho que vai perder seu tempo,** respondeu o coelho.

Ao ouvirem o sinal de largada, os dois partiram. O coelho saiu a toda velocidade e a tartaruga ficou para trás. Mais adiante, acreditando que a tartaruga não tivesse a menor chance, o coelho deitou-se e tirou uma soneca.

Quando o coelho acordou, não teve tempo de correr para chegar primeiro e, assim, a tartaruga atravessou a linha de chegada, vencendo a corrida.

Moral: Quem segue confiante é vencedor.

Adaptado de http://www.clubedobebe.com.br/HomePage/Fabulas/fabulasdeesopo1.htm

QUESTÃO 08
No DESFECHO da história,

(A) a tartaruga vence a corrida.
(B) o coelho fica se gabando.
(C) o coelho e a tartaruga iniciam a corrida.
(D) o coelho lança o desafio para os animais.

QUESTÃO 09
Considerando que o CLÍMAX determina o desfecho da história, podemos encontrá-lo no trecho

(A) "Desafio a todos aqui a participarem de uma corrida comigo".
(B) "Ao ouvirem o sinal de largada, os dois partiram".
(C) "Quando o coelho acordou não teve tempo de correr para chegar primeiro".
(D) "O coelho estava se gabando para os outros animais".

QUESTÃO 10
No trecho "**Aceito o desafio!**", o ponto de exclamação (**!**) indica que a tartaruga estava

(A) triste.
(B) aborrecida.
(C) assustada.
(D) confiante.

QUESTÃO 11
No trecho "**Você é muito lenta! Acho que vai perder seu tempo** (...)", o coelho estava

(A) fazendo um pedido.
(B) dando uma opinião.
(C) desafiando os animais.
(D) convidando a tartaruga.

BLOCO 2

LÍNGUA PORTUGUESA

Você terá 25 minutos para responder a este bloco

A figura abaixo mostra parte da bula de um remédio. Observe-a e responda à questão **12**.

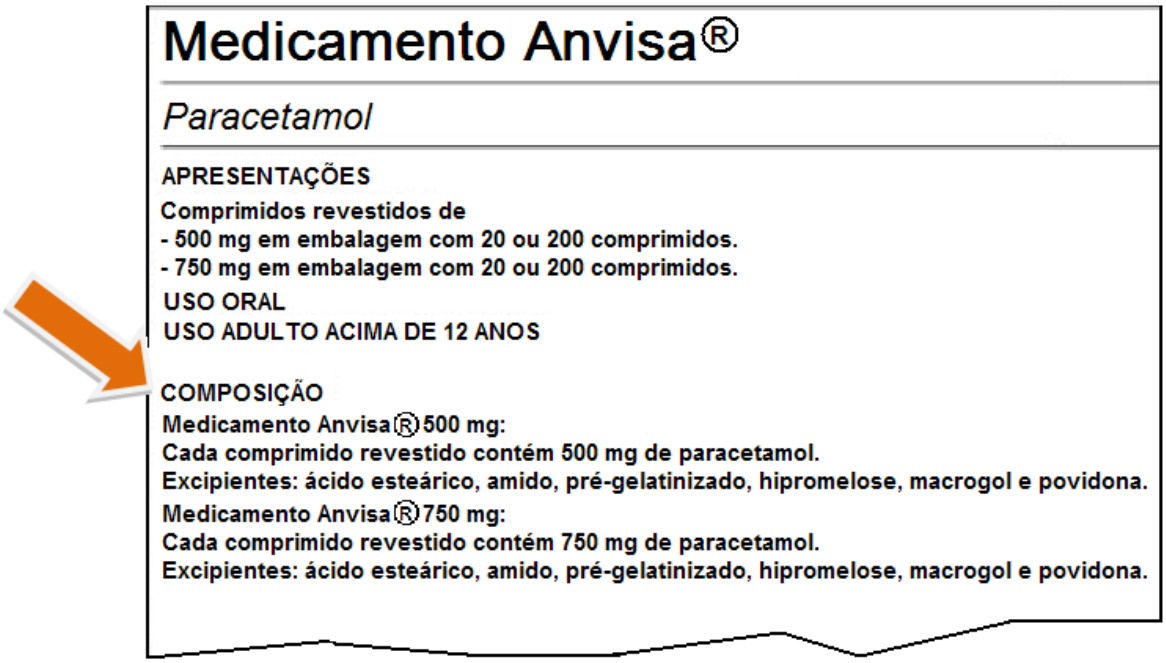

Medicamento Anvisa®

Paracetamol

APRESENTAÇÕES
Comprimidos revestidos de
- 500 mg em embalagem com 20 ou 200 comprimidos.
- 750 mg em embalagem com 20 ou 200 comprimidos.
USO ORAL
USO ADULTO ACIMA DE 12 ANOS

COMPOSIÇÃO
Medicamento Anvisa® 500 mg:
Cada comprimido revestido contém 500 mg de paracetamol.
Excipientes: ácido esteárico, amido, pré-gelatinizado, hipromelose, macrogol e povidona.
Medicamento Anvisa® 750 mg:
Cada comprimido revestido contém 750 mg de paracetamol.
Excipientes: ácido esteárico, amido, pré-gelatinizado, hipromelose, macrogol e povidona.

QUESTÃO 12
A linguagem usada para apresentar a COMPOSIÇÃO do remédio é

(A) regional.
(B) informal.
(C) científica.
(D) formal.

Leia o texto a seguir e responda às questões **13** e **14**.

Presidente Vargas voltará a ter desfiles

Os moradores de Belém voltarão a ter o tradicional desfile de 7 de Setembro na avenida Presidente Vargas. Após longas conversas entre as diretorias das escolas e a coordenação do evento, o desfile que **ocorreu por quatro anos** na Aldeia Amazônica voltará a ocorrer na Presidente Vargas.

Para a estudante do Souza Franco, Miriam Bentes, será um momento muito especial. "**Acho muito boa a mudança**", comenta.

Adaptado de http://www.diarioonline.com.br/ Sábado, 13/08/2011

QUESTÃO 13
No trecho "**Acho muito boa a mudança** (...)", a aluna está

(A) pedindo um favor.
(B) reclamando de algo.
(C) contando um fato.
(D) dando uma opinião.

QUESTÃO 14
O trecho "(...) **ocorreu por quatro anos** (...)" dá a IDEIA de

(A) negação.
(B) tempo.
(C) dúvida.
(D) condição.

Leia os textos e responda às questões **15**, **16**, **17** e **18**.

Texto 1

Belém vai receber Brasil x Argentina em setembro

Foi confirmada a partida entre a Seleção Brasileira e a Argentina, no dia 28 de setembro, **no Mangueirão**, em Belém, no estado do Pará.

A convocação para o jogo, no Mangueirão, acontecerá no dia 23 de setembro.

Adaptado de: http://globoesporte.globo.com/03/08/2011

Texto 2

Paulo Henrique Chagas de Lima, conhecido como Paulo Henrique, nasceu em Ananindeua, no Pará, no dia 12 de outubro de 1989. Ele é um futebolista brasileiro que atua como meia. Atualmente, joga no Santos.

http://pt.wikipedia.org/wiki/Paulo_Henrique_Ganso

QUESTÃO 15
Podemos afirmar que os DOIS textos acima tratam

(A) do estado do Pará.
(B) da seleção argentina de futebol.
(C) do Mano Menezes.
(D) do jogador Paulo Henrique Ganso.

QUESTÃO 16
No **texto 1,** o trecho "**no Mangueirão**" dá a IDEIA de

(A) negação.
(B) lugar.
(C) tempo.
(D) alternativa.

QUESTÃO 17
O **texto 2** tem a FINALIDADE de

(A) informar como chegar ao estádio de futebol.
(B) apresentar a nova camisa do Flamengo.
(C) informar sobre um jogador de futebol.
(D) convidar as torcidas para um jogo.

QUESTÃO 18
A linguagem dos DOIS textos é parecida com a usada pelos

(A) pobres analfabetos que moram nas ruas.
(B) bandidos quando estão ameaçando as pessoas.
(C) meninos quando empinam pipa durante as férias.
(D) jornalistas quando estão dando uma notícia pela TV.

Leia os textos e responda às questões **19**, **20** e **21**.

Um passeio matinal

Num domingo, pela manhã, um menino, que estava passeando de ônibus com sua mãe, começou a observar uma jovem senhora amamentando seu bebê. Intrigado, o menino perguntou à mãe:

— Mas... que negócio é esse?!
— Ela está dando leitinho para o bebê, meu filho.
— **Aquele peito tá cheio de leite?**
— Está, meu amor.
— E o coitado vai beber sem nenhum biscoitinho?

Adaptado de http://www.sobiologia.com.br/conteudos/Reinos2/Esquistossomose.php

QUESTÃO 19
A parte mais ENGRAÇADA da piada é quando

(A) a mãe e o menino entram no ônibus para passear no domingo.
(B) o menino vê a jovem senhora amamentando seu bebê.
(C) a mãe do menino diz que a senhora está dando leite para o bebê.
(D) o menino pergunta se o bebê vai tomar o leite sem nenhum biscoito.

QUESTÃO 20
No trecho "**Aquele peito tá cheio de leite?"**, o ponto de interrogação (**?**) indica que o menino está

(A) afirmando.
(B) incentivando.
(C) perguntando.
(D) ameaçando.

QUESTÃO 21
O trecho "**Num domingo, pela manhã, um menino, que estava passeando de ônibus com sua mãe, começou a observar uma jovem senhora amamentando seu bebê**" corresponde

(A) ao clímax da narrativa.
(B) à introdução da narrativa.
(C) ao desfecho da narrativa.
(D) ao desenvolvimento da narrativa.

QUESTÃO 22
A CHARGE, a seguir, demonstra IRONIA quando pretende mostrar que o povo brasileiro pode comemorar a Semana da Pátria, mas deve ter consciência que o Brasil

(A) ainda tem muitos problemas para resolver.
(B) precisa festejar mais durante o ano.
(C) é o país mais poderoso do mundo.
(D) comemora a Semana da Pátria todo mês.

Adaptado de geotony.webnode.com.br

BLOCO 3

MATEMÁTICA

Você terá 25 minutos para responder a este bloco

Observe as figuras geométricas planas a seguir e responda às questões **23** e **24**.



QUESTÃO 23
Para desenhar a paisagem foram utilizados

(A) 1 triângulo, 2 círculos e 6 retângulos.
(B) 4 retângulos, 6 triângulos e 2 círculos.
(C) 3 círculos, 5 retângulos e 2 triângulos.
(D) 6 retângulos, 4 triângulos e 1 círculo.

QUESTÃO 24
Das figuras planas usadas no desenho, os QUADRILÁTEROS estão

(A) no céu.
(B) no prédio.
(C) na árvore.
(D) no sol.

QUESTÃO 25
As imagens abaixo têm a forma de quais SÓLIDOS GEOMÉTRICOS?

bola

prédio

(A) cilindro e pirâmide.
(B) esfera e paralelepípedo.
(C) prisma e cone.
(D) paralelepípedo e cubo.

QUESTÃO 26
O DADO a seguir tem a forma de um POLIEDRO porque possui

(A) três lados diferentes.
(B) superfície arredondada.
(C) somente faces planas.
(D) uma aresta e um vértice.



DADO

Observe a Bandeira do Brasil e responda às questões **27** e **28**.

QUESTÃO 27
As figuras PLANAS que compõem a Bandeira são

(A) losango, quadrado e triângulo.
(B) retângulo, quadrado e triângulo.
(C) quadrado, triângulo e círculo.
(D) retângulo, losango e círculo.

QUESTÃO 28
A Bandeira é formada por

(A) 1 quadrilátero.
(B) 2 quadriláteros.
(C) 3 quadriláteros.
(D) 4 quadriláteros.

Observe a figura destacada na malha e responda à questão **29**.

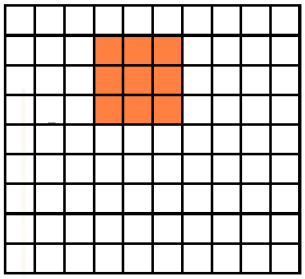

QUESTÃO 29
Qual das alternativas a seguir corresponde à ampliação das dimensões da figura acima?

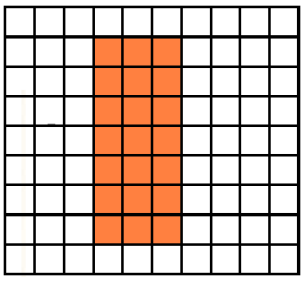

(A)

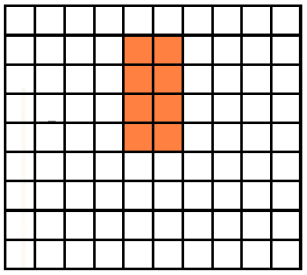

(B)

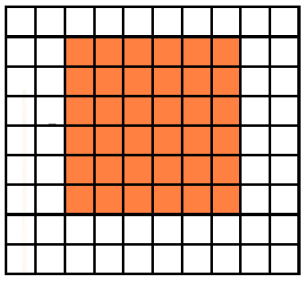

(C)

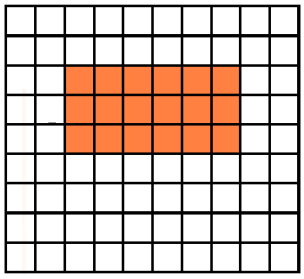

(D)

QUESTÃO 30
A figura em destaque na **malha 1** teve suas dimensões ampliadas QUANTAS VEZES na **malha 2**?

(A) 2
(B) 3
(C) 5
(D) 6

malha 1

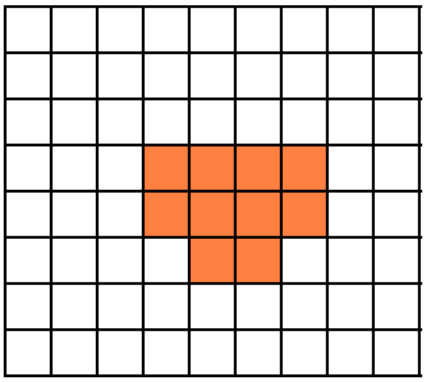

malha 2

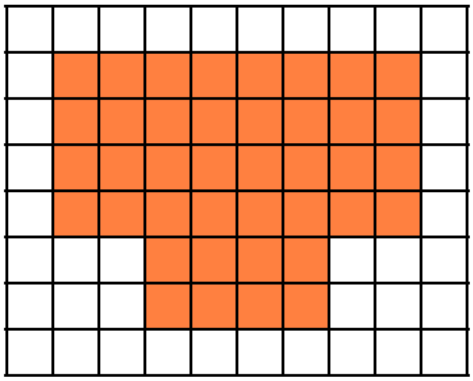

Leia a informação abaixo e responda às questões **31**, **32** e **33**.

Em 2009, o desfile do Dia da Raça, em Belém, teve a participação de **616** homens da Polícia Militar para garantir a segurança dos estudantes.

Fonte: http://www.orm.com.br/projetos/oliberal/interna/default.asp?modulo=247&codigo=487907

QUESTÃO 31
O total de dezenas que forma o número **616** é

(A) 1
(B) 16
(C) 61
(D) 616

QUESTÃO 32
Uma das maneiras de decompor o número **616** nas suas ordens é

(A) 6 centenas e 16 dezenas.
(B) 6 centenas e 16 unidades.
(C) 61 centenas e 6 unidades.
(D) 61 centenas e 6 dezenas.

QUESTÃO 33
O número **616**, decomposto em sua forma polinomial, corresponde a

(A) 6 x 100 + 1 x 10 + 6 x 1
(B) 6 x 100 + 3 x 10 + 8 x 1
(C) 6 x 1000 + 2 x 10 + 5 x 1
(D) 6 x 1000 + 3 x 10 + 6 x 1

BLOCO 4

MATEMÁTICA

Você terá 25 minutos para responder a este bloco

Observe a quantidade de bananas vendidas por cada feirante, em 10 dias, e responda às questões **34**, **35** e **36**.



QUESTÃO 34
O feirante que vendeu menos de 12 centenas de bananas foi

(A) Bené.
(B) Zeca.
(C) Tonho.
(D) Tito.

QUESTÃO 35
Decompondo a quantidade de bananas vendidas por **Tito** tem-se

(A) uma unidade de milhar e cento e vinte e três unidades.
(B) uma unidade de milhar e trezentos e vinte e três unidades.
(C) uma unidade de milhar, duas centenas e trinta e oito unidades.
(D) uma unidade de milhar, três centenas e oitenta e duas unidades.

QUESTÃO 36
O número decomposto em **1 x 1000 + 2 x 100 + 3 x 10 + 8 x 1** corresponde à quantidade vendida por

(A) Bené.
(B) Zeca.
(C) Tonho.
(D) Tito.

Observe as roupas no varal a seguir e responda à questão **37**.

QUESTÃO 37
De quantas maneiras podemos combinar as calças e as camisetas desse varal?

(A) 3
(B) 4
(C) 6
(D) 7

QUESTÃO 38
Sabendo que José tem 85 kg de feijão, quantos sacos com 5 kg ele conseguirá formar?

(A) 17 sacos.
(B) 18 sacos.
(C) 19 sacos.
(D) 20 sacos.

A reta numerada a seguir representa a distância, em quilômetros (km), entre uma montanha e as casas construídas ao longo de uma estrada. Observe-a e responda às questões **39** e **40**.

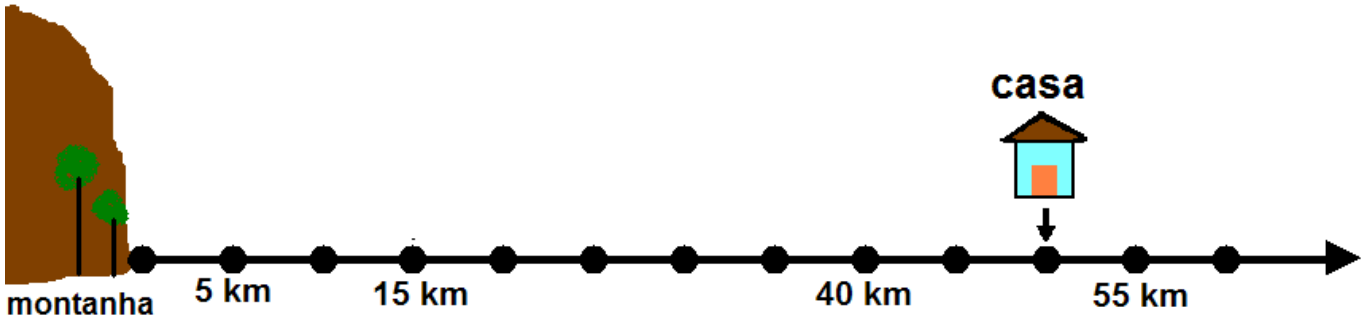

QUESTÃO 39
O intervalo entre os pontos da reta numerada é

(A) 3 km
(B) 5 km
(C) 7 km
(D) 9 km

QUESTÃO 40
O ponto na reta que indica a distância entre a **montanha** e a **casa** é

(A) 20 km
(B) 30 km
(C) 50 km
(D) 60 km

QUESTÃO 41
Observe a FRAÇÃO que representa a parte pintada da figura abaixo:

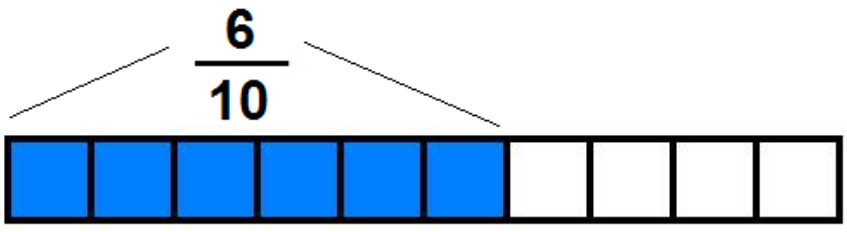

Que NÚMERO DECIMAL corresponde à FRAÇÃO em destaque?

(A) 0,1
(B) 0,6
(C) 1,6
(D) 6,1

QUESTÃO 42
Observe a ilustração abaixo.

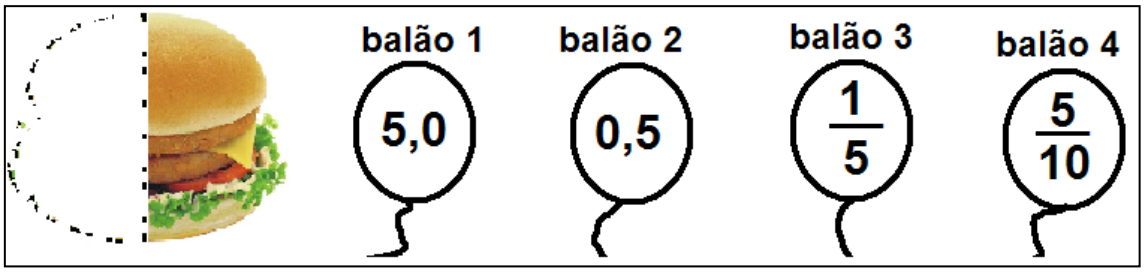

Quais os balões que apresentam numerais correspondentes à METADE de um sanduíche?

(A) balão 2 e balão 4.
(B) balão 1 e balão 3.
(C) balão 2 e balão 3.
(D) balão 1 e balão 4.

Observe a figura a seguir e responda às questões **43** e **44**.



QUESTÃO 43
O numeral fracionário que representa a quantidade de ovos quebrados é

(A) $\frac{1}{2}$ (B) $\frac{1}{3}$ (C) $\frac{1}{4}$ (D) $\frac{1}{5}$

QUESTÃO 44
Como se escreve o numeral fracionário que corresponde à quantidade de ovos quebrados?

(A) um quinto.
(B) um quarto.
(C) um terço.
(D) um meio.